দিনাজপুর বোর্ড-২০২৩

গণিত (বহুনির্বাচনি অভীক্ষা)

[২০২৩ সালের সিলেবাস অনুযায়ী]

বিষয় কোড : | 1 | 0 | 9 |

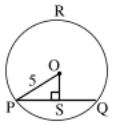
সময় : ৩০ মিনিট

পূর্ণমান : ৩০

[বিশেষ দ্রষ্টব্য : সরবরাহকৃত বহুনির্বাচনি অভীক্ষার উত্তরপত্রে প্রশ্নের ক্রমিক নম্বরের বিপরীতে প্রদত্ত বর্ণসংবলিত বৃত্তসমূহ হতে সঠিক/সর্বোৎকৃষ্ট উত্তরের বৃত্তটি বল পয়েন্ট কলম দ্বারা সম্পূর্ণ ভরাট কর। প্রতিটি প্রশ্নের মান-১।]

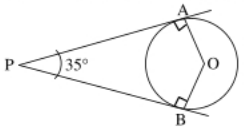
প্রশ্নপত্রে কোনো প্রকার দাগ/চিহ্ন দেয়া যাবে না।

১. কোনো বৃত্তের উপচাপে অন্তর্লিখিত কোণ নিচের কোনটি?
ক স্থূলকোণ খ সূক্ষ্মকোণ
গ সমকোণ ঘ প্রবৃদ্ধ কোণ

২.


চিত্রে OS = 3 সে.মি. হলে PQ = কত?
ক 4 সে.মি. খ 8 সে.মি.
গ $2\sqrt{17}$ সে.মি. ঘ $4\sqrt{17}$ সে.মি.

৩. সমবাহু ত্রিভুজের বহিঃস্থ কোণের বিপরীত অন্তঃস্থ কোণদ্বয়ের সমষ্টি কত ডিগ্রি?
ক 60° খ 90° গ 120° ঘ 180°

☐ নিচের তথ্যের আলোকে ৪ ও ৫নং প্রশ্নের উত্তর দাও :


চিত্রে O বৃত্তটির কেন্দ্র।

৪. ∠AOB = কত?
ক 180° খ 145° গ 135° ঘ 90°

৫. PO = 13 সে.মি., OB = 5 সে.মি. হলে PA = কত?
ক $\sqrt{119}$ সে.মি. খ 12 সে.মি.
গ 13 সে.মি. ঘ $\sqrt{194}$ সে.মি.

৬. একটি নির্দিষ্ট চতুর্ভুজ অঙ্কনের জন্য কয়টি স্বতন্ত্র উপাত্তের প্রয়োজন?
ক 2 খ 3 গ 4 ঘ 5

৭. সুষম পঞ্চভুজের একটি শীর্ষকোণ কত?
ক 106° খ 108° গ 110° ঘ 120°

৮. 3 সে.মি., 4 সে.মি. ও 5 সে.মি. ব্যাসার্ধবিশিষ্ট তিনটি বৃত্ত পরস্পর বহিঃস্পর্শক করলে কেন্দ্রত্রয় দ্বারা গঠিত ত্রিভুজের পরিসীমা কত সে.মি.?
ক 4 খ 6 গ 12 ঘ 24

৯. A = {a, b, c, d, e} এর প্রকৃত উপসেটের সংখ্যা কত?
ক 25 খ 31 গ 32 ঘ 33

১০. একটি বইয়ের মূল্য 30 টাকা যা বইটি তৈরির ব্যয়ের 60% । বইটির প্রকৃত মূল্য কত টাকা?
ক 50 খ 48 গ 20 ঘ 18

১১. $f(x) = m^3 + km^2 - 4m - 8$ হলে k এর কোন মানের জন্য $f(-2) = 0$ হবে?
ক -6 খ -2 গ 2 ঘ 6

১২. $2p^3 - 3p^2 + 3p - 1$ এর একটি উৎপাদক নিচের কোনটি?
ক $2p - 1$ খ $2p + 1$ গ $p^2 - p - 1$ ঘ $p^2 + p + 1$

১৩. $p + \frac{1}{p} = 2$ হলে $p^5 + \frac{1}{p^5}$ = কত?
ক 14 খ 10 গ 6 ঘ 2

১৪. 3 + 5 + 7 + 9 + ... ধারাটি 62 তম পদ কত?
ক 125 খ 122 গ 65 ঘ 59

১৫. 5 − 5 + 5 − 5 + ... ধারাটির 20 পদের সমষ্টি কত?
ক -5 খ -1 গ 0 ঘ 5

১৬. 2 + p + 6 + q + 10 + r + ... সমান্তর ধারাভুক্ত হলে–
i. p এর মান 4 ii. r এর মান 12 iii. প্রথম 6টি পদের সমষ্টি 42
নিচের কোনটি সঠিক?
ক i ও ii খ i ও iii গ ii ও iii ঘ i, ii ও iii

১৭. ΔABC-এ AB = BC = CA = 6 সে.মি. হলে মধ্যমা AD = কত সে.মি.?
ক $2\sqrt{3}$ খ $3\sqrt{3}$ গ $3\sqrt{5}$ ঘ $6\sqrt{2}$

১৮. একটি বর্গক্ষেত্রের কর্ণের দৈর্ঘ্য 6 সে.মি. হলে তার পরিসীমা কত সে.মি.?
ক $12\sqrt{2}$ খ $4\sqrt{3}$ গ $3\sqrt{2}$ ঘ $2\sqrt{3}$

১৯. বৃত্তের কেন্দ্রস্থ কোণ 144° এবং ব্যাসার্ধ 10 সে.মি. হলে বৃত্তচাপের দৈর্ঘ্য কত সে.মি.?
ক 16π খ 12π গ 8π ঘ 4π

২০. 13 সে.মি. উচ্চতাবিশিষ্ট বেলনের ভূমির ব্যাসার্ধ 6 সে.মি. হলে–
i. ভূমির ক্ষেত্রফল 113.10 বর্গ সে.মি. (প্রায়)
ii. বক্রতলের ক্ষেত্রফল 490.09 বর্গ সে.মি. (প্রায়)
iii. আয়তন 1470.27 ঘন সে.মি. (প্রায়)
নিচের কোনটি সঠিক?
ক i ও ii খ i ও iii গ ii ও iii ঘ i, ii ও iii

২১. -5 থেকে 5 পর্যন্ত পূর্ণ সংখ্যাগুলোর মধ্যক কত?
ক -5 খ -1 গ 0 ঘ 5

☐ নিচের তথ্যের আলোকে ২২ ও ২৩নং প্রশ্নের উত্তর দাও :

শ্রেণিব্যাপ্তি	31-35	36-40	41-45	46-50	51-55	56-60
গণসংখ্যা	5	8	18	15	12	10

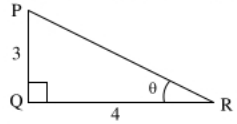
২২. মধ্যক শ্রেণির নিম্নসীমা কত?
ক 31 খ 36 গ 41 ঘ 46

২৩. প্রচুরক শ্রেণির পূর্বের শ্রেণির ক্রমযোজিত গণসংখ্যা কত?
ক 31 খ 18 গ 13 ঘ 8

২৪. 0.0000235 সংখ্যাটির সাধারণ লগের পূর্ণক কত?
ক 5 খ 4 গ $\bar{4}$ ঘ $\bar{5}$

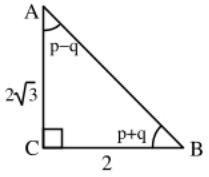
২৫. $(\sqrt{5})^{x+3} = (\sqrt{5^4})^{2x-1}$ হলে x এর মান কত?
ক $\frac{1}{7}$ খ 1 গ $\frac{5}{3}$ ঘ 4

২৬. $\log_{49} 7 + \log_{\sqrt{7}} 7$ এর মান কত?
ক $\frac{1}{2}$ খ 1 গ 2 ঘ $\frac{5}{2}$

☐ নিচের তথ্যের আলোকে ২৭ ও ২৮নং প্রশ্নের উত্তর দাও :


২৭. $\tan\theta + \sin\theta$ এর মান কত?
ক $\frac{27}{20}$ খ $\frac{7}{5}$ গ $\frac{29}{15}$ ঘ $\frac{29}{12}$

২৮. $\frac{1 - \sec\theta}{1 + \sec\theta}$ = কত?
ক $\frac{-1}{9}$ খ $\frac{-1}{8}$ গ $\frac{-1}{7}$ ঘ $\frac{-1}{4}$

২৯.


চিত্রে–
i. p = 45° ii. $\sin A = \frac{1}{2}$ iii. $\tan B = \sqrt{3}$
নিচের কোনটি সঠিক?
ক i ও ii খ i ও iii গ ii ও iii ঘ i, ii ও iii

৩০. tan6A = sec6A হলে, A এর মান কত?
ক 0° খ 15° গ 30° ঘ 60°

■ খালি ঘরগুলোতে পেনসিল দিয়ে উত্তরগুলো লেখো। এরপর প্রদত্ত উত্তরমালার সাথে মিলিয়ে দেখো তোমার উত্তরগুলো সঠিক কি না।

উত্তর	১		২		৩		৪		৫		৬		৭		৮		৯		১০		১১		১২		১৩		১৪		১৫	
	১৬		১৭		১৮		১৯		২০		২১		২২		২৩		২৪		২৫		২৬		২৭		২৮		২৯		৩০	